Frères des Écoles Chrétiennes
Notre Dame
Furn El Chebbak

Géographie EB6- 4 Mai 2020

Les métropoles et leurs habitants p.200

Après avoir lu la page 202 et à la page 214 le paragraphe B, nous allons, dans cette fiche, comparer entre DEUX métropoles : New York et Lagos.

1. Vous allez bien observer et comprendre les documents 1, 2, 3 et 4 aux pages 202 et 203.

1 Time Square : le cœur de la métropole
Time Square, dans Manhattan, est l'un des quartiers les plus animés de New York avec des commerces, les sièges de grandes entreprises et des salles de spectacles.

3 L'organisation de l'espace à New York

2 L'évolution de la population de New York

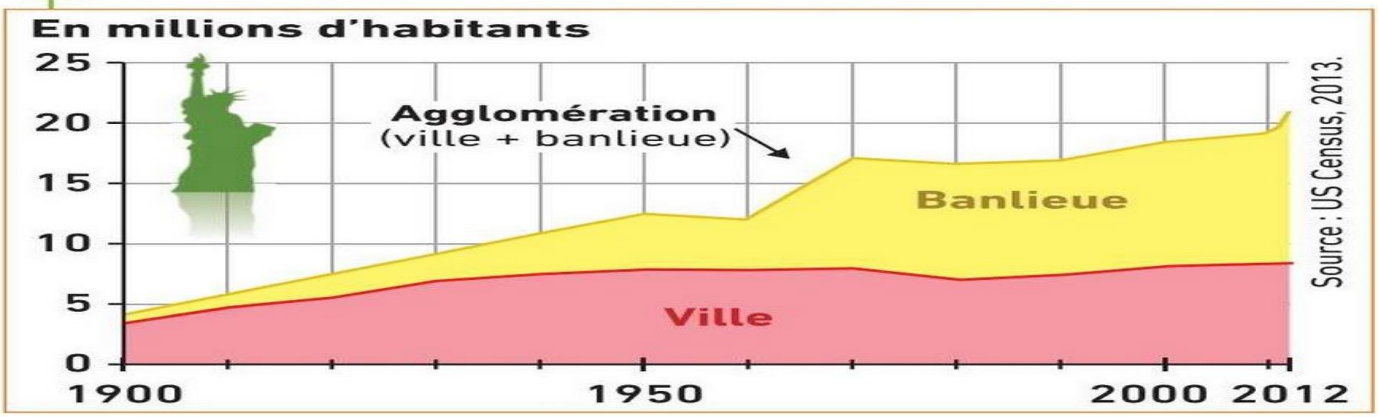

4 Une vue de New York depuis le quartier de Brooklyn

1 Quartiers d'habitations 2 East River 3 Pont de Brooklyn 4 Pont de Manhattan
5 Quartiers des affaires 6 Hudson River 7 Quartiers de banlieues (New Jersey)

2. Vous travaillerez les questions de la partie « Activités » à la page 203.

ACTIVITÉS

1. **Doc. 3 et 4** | Localisez et situez New York.
2. **Doc. 2 et 3** | Quelles sont les deux parties de son agglomération ?
3. **Doc. 4** | **Je comprends un document**
   - **a** Quelle est la prise de vue de la photographie ?
   - **b** Quels sont les différents types de quartiers visibles sur la photographie ?
   - **c** Complétez le croquis de paysage ci-contre.

Coup de pouce Pour réaliser le croquis :
- **Je complète** les intitulés de la légende.
- **Je donne** un titre au croquis

TITRE : .....

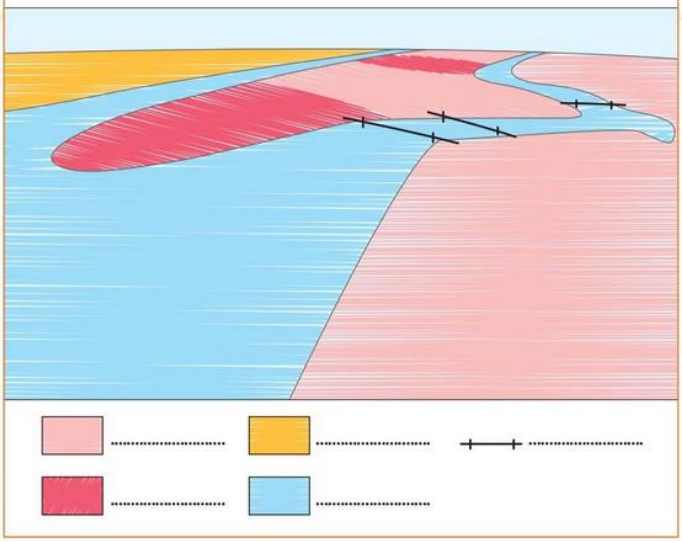

4. **Doc. 2** | Comment a évolué la population de New York et de sa banlieue depuis 1900 ?
5. **Doc. 1, 4 et doc. 5 p. 205** | Qu'est-ce qui distingue l'habitat du centre-ville de New York de celui de la banlieue ?
6. **Doc. 1, 3 et 4** | À l'aide de la définition, montrez que New York est une métropole.

3. Ensuite, vous allez bien observer et comprendre les 5 documents aux pages 206 et 207 pour ensuite répondre aux questions de la partie « Activités » à la page 206.

Avec près de 13 millions d'habitants, Lagos est la métropole la plus peuplée d'Afrique. Ses habitants vivent dans des conditions très diverses.

A Comment Lagos se développe-t-elle ?

1 Une vue de Lagos depuis le quartier de Makoko

2 Une grande métropole d'Afrique

Détail de la Une de *Courrier international*, 12-18 septembre 2013.

Lagos concentre la majeure partie des activités économiques du Nigeria : pétrole, finance, cinéma (« Nollywood »).

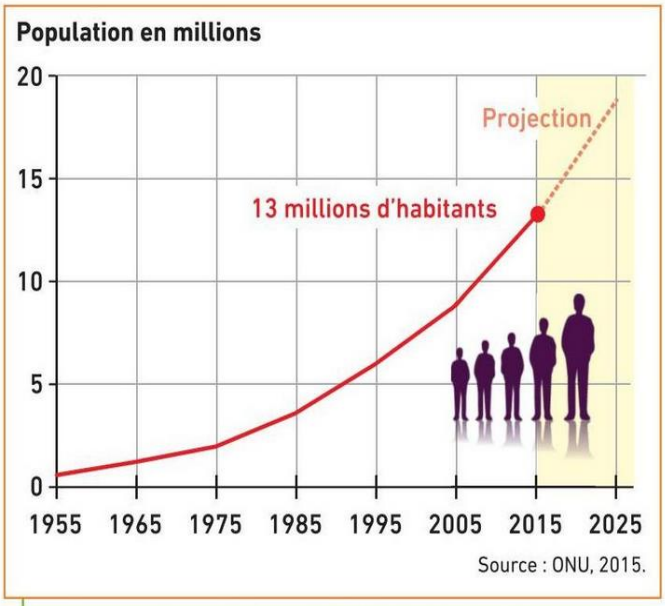

3 L'évolution de la population de Lagos

4 Une ville en forte croissance

« “Ville poubelle”, “Enfer”, “Problème”. Les Nigérians ne manquent pas de qualificatifs pour décrire Lagos. Tous négatifs. De fait, la plus importante métropole d’Afrique de l’Ouest, avec 13 millions d’habitants, est un aimant monstrueux. [...] Lagos – qui représente plus de 50 % du PIB du pays – ne cesse de grossir. On estime que près de 6 000 personnes (originaires des régions rurales ou d’autres pays d’Afrique) viennent chaque jour s’y établir dans l’espoir d’une vie meilleure. La croissance de sa population – 6 % par an – est l’une des plus élevées du monde. Cette pieuvre étend même ses tentacules sur l’État voisin d’Ogun. À cheval entre le continent, une île et une presqu’île, Lagos suffoque de son manque de terres. »

▪ **Julie Vandal, *Alternatives internationales*, hors-série n° 13, mai 2013.**

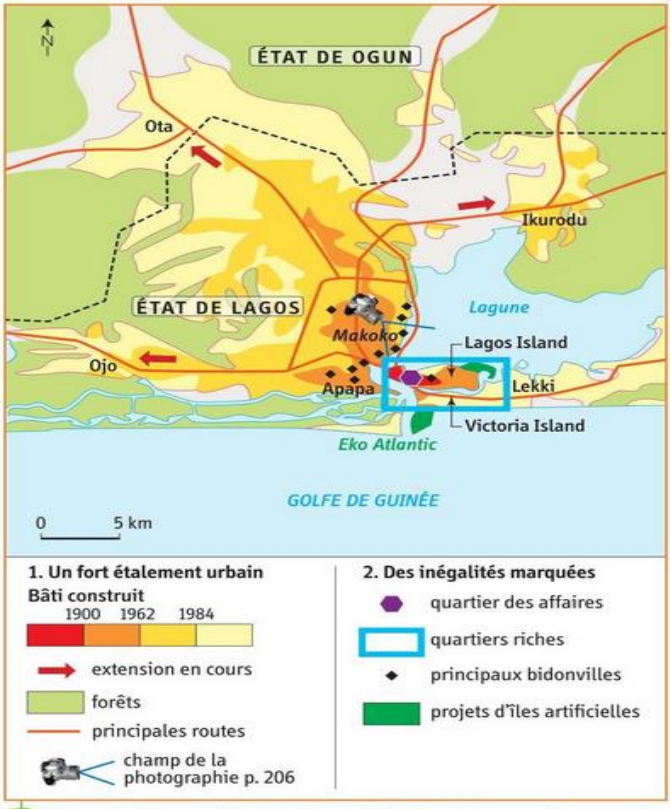

5 Lagos, une métropole en développement

ACTIVITÉS

1. **Doc. 1 et 5** | Où se situe Lagos ? Quel est son niveau de développement (**voir planisphère p. 194**) ?
2. **Doc. 5** | Dans quel site naturel Lagos a-t-elle été aménagée ? Dans quelles directions la ville s’est-elle agrandie ?
3. **Doc. 3 et 4** | Comment a évolué la population de Lagos depuis 1995 ? Comment l’expliquer ?
4. **Doc. 2** | Quelle est l’image de Lagos présentée par cette Une de presse ?
5. **Doc. 1** | **Je comprends un document**

   a Quels sont les trois quartiers visibles sur la photographie ?

   b Qu’est-ce qui distingue ces trois quartiers ?

   c Complétez le croquis de paysage ci-contre.

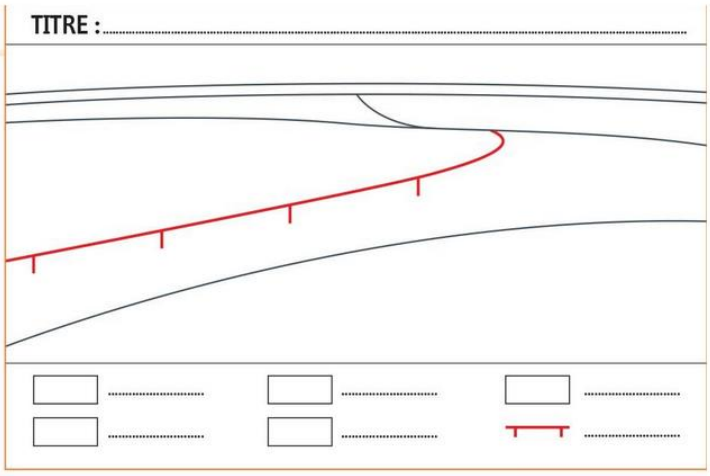

Coup de pouce

Pour réaliser le croquis :
- **Je complète** la légende.
- **Je colorie** avec les couleurs choisies.
- **Je donne** un titre au croquis.

4. Observez enfin aux pages 212 et 213 la carte mondiale et comprenez ces deux termes :
   l'urbanisation
   Le taux d'urbanisation

5. Lisez le paragraphe C à la page 214.

C Les défis des métropoles

1. **Les inégalités sont très fortes dans les métropoles.** Aux États-Unis, la pauvreté se concentre dans les ghettos alors que la population aisée vit plutôt dans les banlieues pavillonnaires (New York). Dans les pays pauvres, les riches quartiers sécurisés font face aux bidonvilles où une partie importante de la population vit sans eau courante ni électricité (Lagos).
2. Les métropoles ont aussi des **problèmes liés à leur gigantisme** : difficulté de déplacements pour les habitants, gestion des déchets, pollution de l'air, insécurité… Ces difficultés risquent de s'accroître dans l'avenir (DOC. 4).

Et pour finir, n'oubliez pas, mes chers élèves, ces deux choses :

1. Vous me manquez.
2. « Toute la géographie, la trigonométrie et l'arithmétique du monde ne servent à rien si tu n'apprends pas à penser par toi-même. »

A bientôt
Si Dieu le veut